Пробный вариант №12
по математике
(базовый уровень)

1 Таксист за месяц проехал 9000 км. Цена бензина 30 рублей за литр. Средний расход бензина на 100 км составляет 8 литров. Сколько рублей потратил таксист на бензин за этот месяц?

Ответ: _____.

2 Установите соответствие между величинами и их возможными значениями: к каждому элементу первого столбца подберите соответствующий элемент из второго столбца.

ВЕЛИЧИНЫ	**ЗНАЧЕНИЯ**
А) площадь территории России	1) 420 кв. м
Б) площадь поверхности тумбочки	2) 0,2 кв. м
В) площадь почтовой марки	3) 17,1 млн кв. км
Г) площадь баскетбольной площадки	4) 6,8 кв. см

В таблице под каждой буквой, соответствующей величине, укажите номер её возможного значения.

Ответ:

А	Б	В	Г

3 На диаграмме показана среднемесячная температура воздуха в Санкт-Петербурге за каждый месяц 1999 года. По горизонтали указываются месяцы, по вертикали – температура в градусах Цельсия.

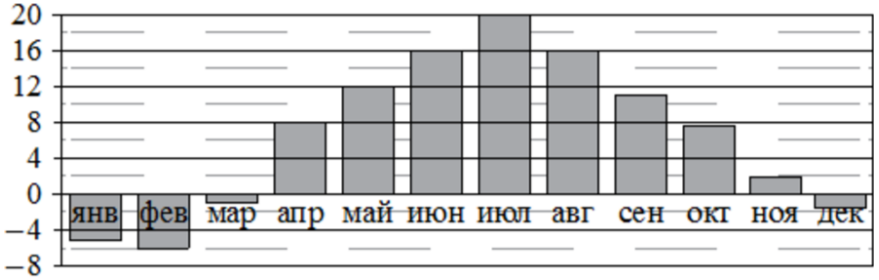

Определите по диаграмме наибольшую среднемесячную температуру в период с февраля по июнь 1999 года. Ответ дайте в градусах Цельсия.

Ответ: _____.

4 Среднее геометрическое трёх чисел a, b и c вычисляется по формуле $g = \sqrt[3]{abc}$. Вычислите среднее геометрическое чисел 4, 8, 16.

Ответ: _____.

5 Из 1600 пакетов молока в среднем 80 протекают. Какова вероятность того, что случайно выбранный пакет молока не течёт?

Ответ: _____.

6 Строительный подрядчик планирует купить 20 тонн облицовочного кирпича у одного из трёх поставщиков. Один кирпич весит 5 кг. Цена кирпича и условия доставки всей покупки приведены в таблице.

Поставщик	Цена кирпича (руб. за шт.)	Стоимость доставки (руб.)	Специальные условия
А	49	8000	Нет
Б	55	7000	Доставка бесплатно, если сумма заказа превышает 200 000 руб.
В	62	6000	Доставка со скидкой 50%, если сумма заказа превышает 240 000 руб.

Во сколько рублей обойдётся наиболее дешёвый вариант покупки с доставкой?

Ответ: _____.

7 На графике изображена зависимость температуры от времени в процессе разогрева двигателя легкового автомобиля. На горизонтальной оси отмечено время в минутах, прошедшее с момента запуска двигателя, на вертикальной оси – температура двигателя в градусах Цельсия.

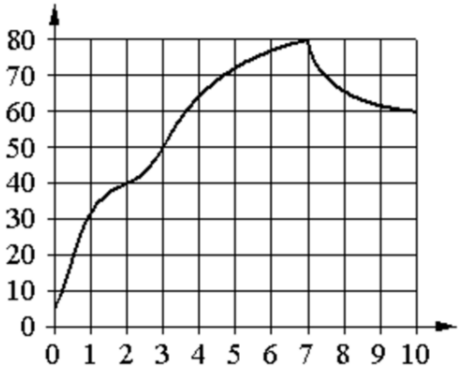

Пользуясь графиком, поставьте в соответствие каждому интервалу времени характеристику температуры.

ИНТЕРВАЛЫ ВРЕМЕНИ	**ХАРАКТЕРИСТИКИ**
А) 0-1 мин.	1) температура росла и на всём интервале была выше 60°С
Б) 2-3 мин.	2) температура падала
В) 4-6 мин.	3) самый быстрый рост температуры
Г) 7-9 мин.	4) температура находилась в пределах от 40°С до 50°С

В таблице под каждой буквой укажите соответствующий номер.

Ответ:

А	Б	В	Г

8 Хозяйка к празднику купила морс, мороженое, крабовые палочки и рыбу. Мороженое стоило дороже крабовых палочек, но дешевле рыбы, морс стоил дешевле мороженого. Выберите утверждения, которые верны при указанных условиях.

1) Морс стоил дешевле рыбы.
2) За морс заплатили больше, чем за мороженное.
3) Рыба – самая дорогая из покупок.
4) Среди указанных четырёх покупок есть три, стоимость которых одинакова.

В ответе запишите номера выбранных утверждений без пробелов, запятых и других дополнительных символов.

Ответ: _____.

9 На клетчатой бумаге с размером клетки 1×1 изображён треугольник. Найдите его площадь.

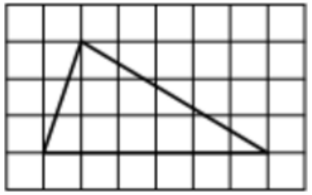

Ответ: _____.

10 Диагональ прямоугольного телевизионного экрана равна 100 см, а высота экрана – 60 см. Найдите ширину экрана. Ответ дайте в сантиметрах.

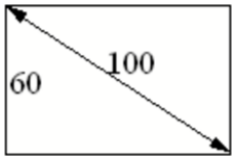

Ответ: _____.

11 Плоскость, проходящая через точки A, B и C (см. рис.), разбивает правильную треугольную призму на два многогранника. Сколько вершин у получившегося многогранника с меньшим числом граней?

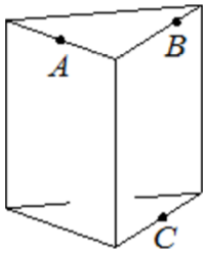

Ответ: _____.

12 На прямой AB взята точка M. Луч MD – биссектриса угла CMB. Известно, что $\angle DMC = 51°$. Найдите угол CMA. Ответ дайте в градусах.

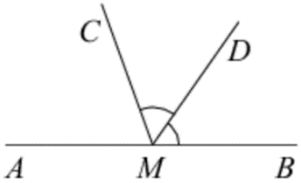

Ответ: _____.

13 В основании прямой призмы лежит прямоугольный треугольник, катеты которого равны 3 и 16. Найдите объём призмы, если её высота равна 3.

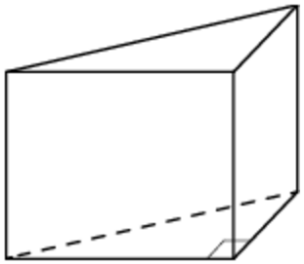

Ответ: _____.

14 Найдите значение выражения

$$\frac{2{,}6 - 8{,}4}{2{,}5}.$$

Ответ: _____.

15 В начале года число абонентов телефонной компании «Восток» составляло 800 тыс. человек, а в конце года их стало 880 тыс. человек. На сколько процентов увеличилось за год число абонентов этой компании?

Ответ: _____.

16 Найдите значение выражения

$$4^{-2} \cdot \frac{4^3}{4^{-1}}.$$

Ответ: _____.

17 Найдите корень уравнения

$$1 + 8(3x + 7) = 9.$$

Ответ: _____.

18 Число m равно $\sqrt{0{,}5}$.

Каждому из четырёх чисел в левом столбце соответствует отрезок, которому оно принадлежит. Установите соответствие между числами и отрезками из правого столбца.

ЧИСЛА	**ОТРЕЗКИ**
А) $\sqrt{6+m}$	1) $[-2;-1]$
Б) $-m-1$	2) $[0;1]$
В) m^2	3) $[2;3]$
Г) $\dfrac{3}{m}$	4) $[4;5]$

Впишите в приведённую в ответе таблицу под каждой буквой соответствующий числу номер.

Ответ:

А	Б	В	Г

19 Найдите пятизначное число, кратное 12, произведение цифр которого равно 40. В ответе укажите какое-нибудь одно такое число.

Ответ: _____.

20 Валя и Галя пропалывают грядку за 35 минут, а одна Галя — за 60 минут. За сколько минут пропалывает грядку одна Валя?

Ответ: _____.

21 Из книги выпало несколько идущих подряд листов. Номер последней страницы перед выпавшими листами – 298, номер первой страницы после выпавших листов записывается теми же цифрами, но в другом порядке. Сколько листов выпало?

Ответ: _____.